樗6NO49

平均とちらばり

下の表は，10月10日に東小屋と西小屋のにわとりが産んだ全部の卵の重さを記録したものです。

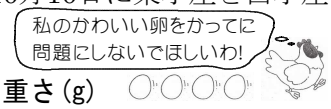

東小屋の卵の重さ(g)

①	②	③	④	⑤	⑥	⑦	⑧
53	48	58	63	65	58	53	56
⑨	⑩	⑪	⑫	⑬	⑭	⑮	⑯
58	57	60	55	67	50	62	57

西小屋の卵の重さ(g)

①	②	③	④	⑤	⑥	⑦	⑧
50	63	54	74	63	45	54	67
⑨	⑩	⑪	⑫	⑬			
60	47	68	52	57			

革　樗蔚と　樗蔚のそれぞれの　の　さの　　を句めよ。 40を兜昡にして　　を句めるやりﾄﾒﾙｲﾁです！

東小屋(13＋8＋18＋23＋25＋18＋13＋16＋18＋17＋20＋15＋27＋10＋22＋17)÷16＝17.5
もとの数から40を引いた数です!
17.5＋40＝57.5kg

東小屋(10＋23＋14＋34＋23＋5＋14＋27＋20＋7＋28＋12＋17)÷13＝18
もとの数から40を引いた数です!
18＋40＝58kg

学　樗蔚の　の　さを鴇　　に　しなさい。また、　　の　さを　　で　きなさい。

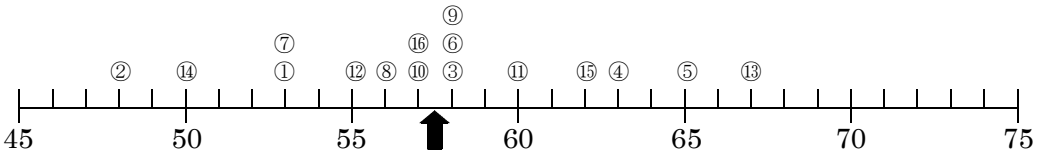

55 以上 …50と等しいか50より大きいこと。

55 未満 …50より小さいことで，50は入らない。

岳　樗蔚の　の鴇を餌の　に　　しましょう。

1. 重さが55g未満の卵は何個か。 4個

2. 重さが55g以上65未満の卵は何個か。 10個
   また，その割合は全体の個数の何%か。 62.5%

   (7＋3)÷16＝10÷16＝0.625　0.625×100＝62.5%

3. 重さが65g以上の卵の割合は全体の個数の何%か。

   (2＋0)÷16＝2÷16＝0.125　0.125×100＝12.5%
   65g以上の卵の数
   12.5%

4. 軽いほうから数えて3番目，8番目，13番目の卵はそれぞれ何g以上何g未満のはんいにあるか。

   3番目… 50 以上 ～ 55 未満
   8番目… 55 以上 ～ 60 未満
   13番目… 60 以上 ～ 65 未満

5. 個数が1個だけの区間はどこか。 45 以上 ～ 50 未満

6. 個数が一番多い区間はどこか。 45 以上 ～ 50 未満

7. 重さが60.9ｇの卵があったとしたら，重い方から数えて何番目から何番目のはんいにあるか。
   3 番目から **5** 番目

重さ(ｇ)	個数
45 以上 ～ 50 未満	1
50 以上 ～ 55 未満	3
55 以上 ～ 60 未満	7
60 以上 ～ 65 未満	3
65 以上 ～ 70 未満	2
70 以上 ～ 75 未満	0
合計	16

重さ(ｇ)	個数
45 ～ 50	1
50 ～ 55	3
55 ～ 60	7
60 ～ 65	3
65 ～ 70	2
70 ～ 75	0
合計	16

軽いほう
① ② ③ ④ ⑤ ⑥ ⑦ ⑧ ⑨ ⑩ ⑪ ⑫ ⑬ ⑭ ⑮ ⑯
3 4 5
1 2
重いほう

60.9ｇは…60g以上～65g未満…の間の数！

柱状グラフ

楽　樗蔚と　樗蔚の　の鴇を　を　　してウ餽颯に　しなさい。

樗蔚の

重さ(g)	個数
45以上 ～ 50未満	1
50以上 ～ 55未満	3
55以上 ～ 60未満	7
60以上 ～ 65未満	3
65以上 ～ 70未満	2
70以上 ～ 75未満	0
合計	16

樗蔚のウ餽颯

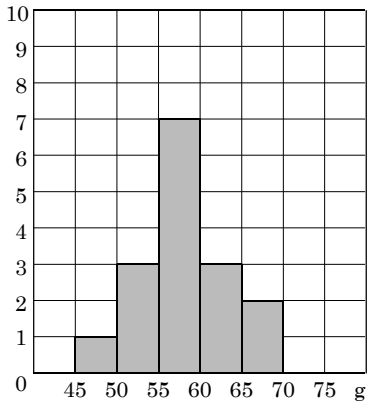

柱状(ちゅうじょう)グラフ

東小屋の区間はどこからどこまでですか。　45以上 ～ 70未満

重さ(g)	個数
45以上 ～ 50未満	2
50以上 ～ 55未満	4
55以上 ～ 60未満	1
60以上 ～ 65未満	3
65以上 ～ 70未満	2
70以上 ～ 75未満	1
合計	13

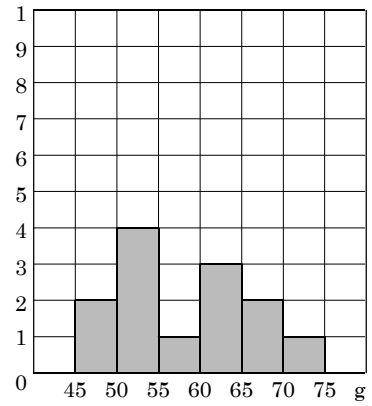

柱状(ちゅうじょう)グラフ

西小屋の区間はどこからどこまでですか。　45以上 ～ 75未満