図形NO8

おうぎ形

①右の図形を(ア)おうぎ形という。

②２つの半径のつくる角を(イ)中心角という。

③１つの円では

おうぎ形の(ウ)弧の長さは，(エ)中心角に(オ)比例する。

(カ)中心角が２倍，３倍になると
弧の長さも２倍，３倍になる。

おうぎ形の(キ)面積は，(ク)中心角に(ケ)比例する。

(コ)中心角が２倍，３倍になると
おうぎ形の面積も２倍，３倍になる。

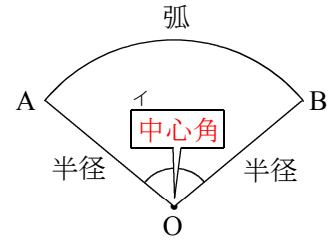

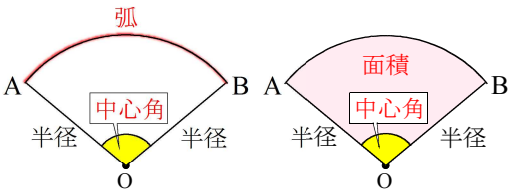

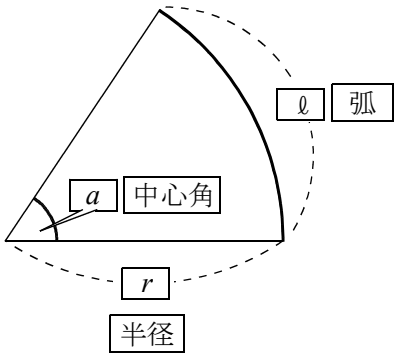

弧ℓの長さ $=\dfrac{\text{(サ)円周}}{2\times\text{半径}\times\pi}\times\dfrac{a}{360}$

おうぎ形の面積 $=\dfrac{\text{(シ)円の面積}}{\text{半径}\times\text{半径}\times\pi}\times\dfrac{a}{360}$

例題１　おうぎ形の弧の長さと面積を求めよ。

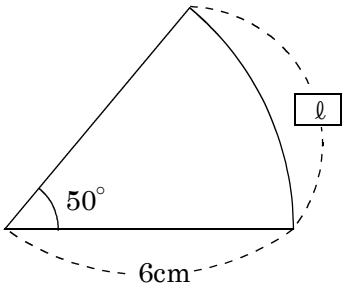

弧ℓの長さ $=\dfrac{\text{円周}}{2\times\text{半径}\times\pi}\times\dfrac{\text{中心角}}{360}$

$=\dfrac{\overset{1}{\cancel{2}}\times\overset{1}{\cancel{6}}\times\pi\times\cancel{50}}{\underset{18}{\cancel{360}}_{3}}$

$=\dfrac{5\pi}{3}$ cm

おうぎ形の面積 $=\dfrac{\text{円の面積}}{\text{半径}\times\text{半径}\times\pi}\times\dfrac{\text{中心角}}{360}$

$=\dfrac{\overset{1}{\cancel{6}}\times\overset{1}{\cancel{6}}\times\pi\times\cancel{50}}{\underset{6}{\cancel{360}}_{1}}$

$=5\pi$ cm^2